Un Van Gogh à 190 millions ! (24 novembre 2026)

FICHE PÉDAGOGIQUE

ℹ️ **De quoi est-il question ?** De la vente aux enchères d'un tableau de Vincent van Gogh, Les Châtaigniers en fleurs, pour 190,4 millions de dollars américains. 🖼️

👤 **De qui est-il question ?** De Vincent van Gogh, un peintre néerlandais très célèbre, et de la maison de ventes aux enchères Sotheby's. 🎨

🌍 **Où cela se déroule-t-il ?** À New York, aux États-Unis, où la vente a eu lieu. Le tableau, lui, a été peint en France, dans le village d'Auvers-sur-Oise.

🕰️ **Quand cela a-t-il eu lieu ?** Le mercredi 18 novembre 2026. Le tableau avait été peint en mai 1890.

❓ **Pourquoi c'est important ?** Parce que c'est le tableau de Van Gogh le plus cher jamais vendu aux enchères, alors que de son vivant, le peintre n'a vendu presque aucune toile.

🎯 **Pour cette activité, ton objectif sera d'en apprendre un peu plus sur ce tableau et sur Vincent van Gogh.** 🌸

OBJECTIFS

- Observer Les Châtaigniers en fleurs de Van Gogh à l'aide d'un quadrillage
- Découvrir les grandes étapes de la vie de Vincent van Gogh
- Associer cinq peintres célèbres à leur style artistique
- Comparer le style de Van Gogh à d'autres styles de peinture

MATIÈRES

- **Arts plastiques**
  - Observation d'une œuvre
  - Mouvements artistiques
  - Couleur et touche du peintre
- **Français**
  - Lecture d'un texte biographique
  - Repérage d'informations
  - Justification d'une opinion
- **Univers social**
  - Biographie d'un personnage historique
  - Ventes aux enchères et marché de l'art
  - Repères dans le temps (XVIIe au XXe siècle)

COMPÉTENCES

- Observer avec précision et décrire ce qu'on voit
- Se repérer dans un quadrillage
- Lire un texte et en dégager l'information essentielle
- Rechercher de l'information dans une ressource en ligne
- Justifier son point de vue

DURÉE

- Environ 60 minutes

POUR DÉBUTER

- Demander à l'enfant s'il connaît un peintre célèbre ou un tableau qui l'a marqué
- Lui demander comment, selon lui, on fixe le prix d'un tableau
- Lui rappeler qu'un quadrillage, comme au jeu de bataille navale, permet de trouver une case grâce à une lettre et un chiffre
- Lui demander ce qu'il ressent devant un tableau très coloré

ATENA
APPRENDRE POUR LA VIE

EXPLORATEURS

Un Van Gogh à 190 millions ! (24 novembre 2026)

FICHE PÉDAGOGIQUE

QUESTIONS ET RÉPONSES

ÉTAPE 1 — Un tableau à la loupe. L'enfant observe le tableau quadrillé et repère des détails case par case (réponses courtes).

Q1 — Un homme qui marche, coiffé d'un chapeau de paille jaune.
Q2 — 3 (trois femmes).
Q3 — A4 ou A5 (accepter les deux).
Q4 — Des cheminées rouges (sur un toit vert).
Q5 — Orange (ou rose) et blanches ; au printemps.

ÉTAPE 2 — Qui était Vincent van Gogh ? L'enfant lit un court texte sur la vie du peintre et répond à cinq questions à choix multiples.

Q6 — b) Aux Pays-Bas.
Q7 — b) 27 ans.
Q8 — c) Son frère Théo.
Q9 — b) Plus de 70.
Q10 — d) Johanna, la femme de Théo.

ÉTAPE 3 — Cinq peintres, cinq styles. L'enfant cherche chaque peintre sur WikiArt et note son style, puis donne son avis sur le tableau de Van Gogh (réponses courtes et réponse ouverte).

Q11 — Impressionnisme.
Q12 — Néo-impressionnisme.
Q13 — Cubisme (WikiArt indique aussi d'autres mouvements).
Q14 — De Stijl.
Q15 — Baroque.
Q16 — Réponse libre et justifiée (souvent l'impressionnisme ou le néo-impressionnisme). En fait, Van Gogh est postimpressionniste.

POUR FINIR

- Demander à l'enfant quel tableau du bandeau il aimerait accrocher chez lui, et pourquoi
- En discuter avec lui : est-ce normal qu'un tableau vaille 190 millions de dollars ?
- L'inviter à dessiner un même objet dans deux styles (en petits points, puis en formes géométriques)
- Lui rappeler que, s'il se sent triste comme Van Gogh l'a été, il peut toujours en parler à un adulte de confiance

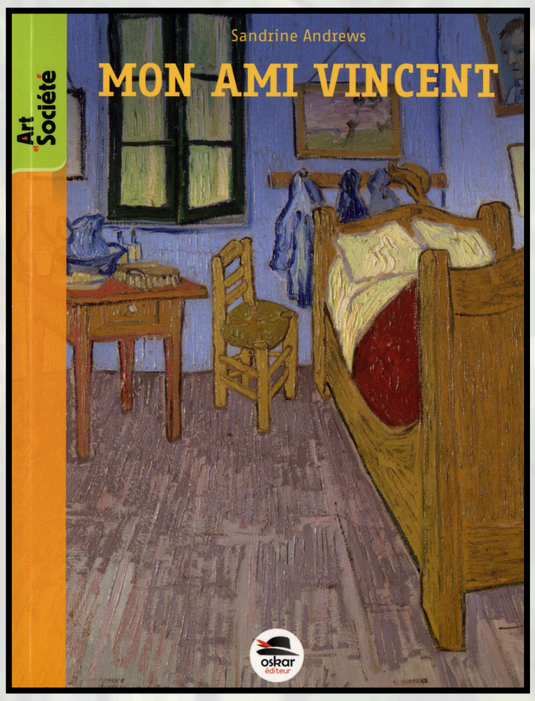

POUR ALLER PLUS LOIN

📖 Sandrine Andrews. *Mon ami Vincent*. Oskar éditeur

EXPLORATEURS PLUS

EXPLORATEURS PLUS — Des œuvres à prix d'or !

1 — 259,9 M$
2 — Environ 2,4 fois
3 — Number 7A (Pollock), 9,2 M$
4 — 3 œuvres
Mot mystère — ARLES

Un Van Gogh à 190 millions ! (24 novembre 2026)

Des œuvres à prix d'or !

Le tableau de Van Gogh vient d'entrer dans le palmarès des œuvres d'art les plus chères jamais vendues aux enchères ! Observe bien le graphique, puis réponds aux questions.

Les 5 œuvres d'art les plus chères vendues aux enchères



1. Combien de millions de dollars de plus que Les Châtaigniers en fleurs a coûté le Salvator Mundi ?
2. Environ combien de fois plus cher que le tableau de Van Gogh est le Salvator Mundi ?
3. Quelle œuvre du graphique a coûté le moins cher ? Combien de millions de dollars la séparent du tableau de Van Gogh ?
4. Combien de ces œuvres ont été vendues en 2025 ou en 2026 ?

Voici cinq tableaux célèbres de Vincent van Gogh. Rends-toi sur sa page WikiArt (www.wikiart.org/fr/vincent-van-gogh) : tu les trouveras tous parmi ses œuvres célèbres.

Dans le titre de chaque tableau, prends la lettre demandée. Attention : on ne compte pas les espaces ni les apostrophes !

1. ____ → 2e lettre
2. ____ → 2e lettre
3. ____ → 1re lettre
4. ____ → 2e lettre
5. ____ → 1re lettre











Mets les cinq lettres dans l'ordre : quel mot obtiens-tu ?

Indice : c'est la ville du Sud de la France où Van Gogh a peint ses célèbres Tournesols.